Matemática II
PC Sampaio e Alex Amaral
21.05.2015

Introdução à Geometria Espacial

1. João propôs um desafio a Bruno, seu colega de classe: ele iria descrever um deslocamento pela pirâmide a seguir e Bruno deveria desenhar a projeção desse deslocamento no plano da base da pirâmide.

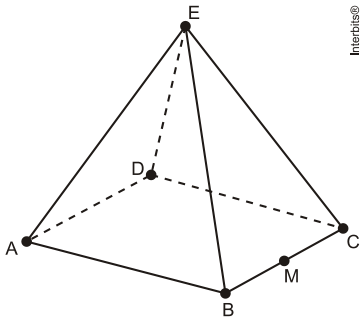

O deslocamento descrito por João foi: mova-se pela pirâmide, sempre em linha reta, do ponto A ao ponto E, a seguir do ponto E ao ponto M, e depois de M a C.
O desenho que Bruno deve fazer é

a)
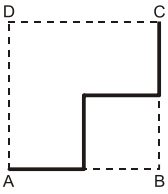

b)
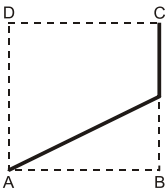

c)
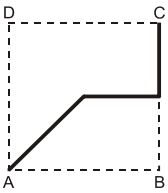

d)
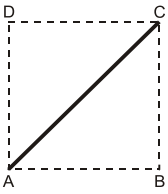

e)
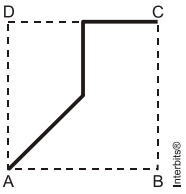

Este conteúdo pertence ao Descomplica. Está vedada a cópia ou a reprodução não autorizada previamente e por escrito.
Todos os direitos reservados.

Matemática II

PC Sampaio e Alex Amaral

21.05.2015

Gabarito

1. C

Este conteúdo pertence ao Descomplica. Está vedada a cópia ou a reprodução não autorizada previamente e por escrito.
Todos os direitos reservados.